Guía de Geometría

I.- Coloca una V si es verdadero y una F si es falso, según corresponda:

1) _____ Una prisma es una figura 3D

2) _____ La esfera, el cono y el cilindro son cuerpos redondos.

3) _____ Las pirámides tienen 1 cara basal

4) _____ El triángulo es una figura plana.

7) _____ Todos las figuras 3D tienen caras, aristas y vértices.

8) _____ El cubo tiene 6 caras cuadradas iguales.

II.- Completa las siguientes oraciones

1) Una pelota de tenis tiene forma de una _____.

2) Un barquillo de helado tiene forma de un _____.

3) El gorro de payaso tiene forma de un _____..

4) Una caja de zapatos tiene forma de un _____.

5) El dado tiene forma de un _____.

6) Una lata de Coca- cola tiene forma de un _____.

7) Un gorro de cumpleaños tiene forma de un

.

III.-Dibuja en tu cuaderno cada una de las figuras 3D y escribe su respectivo

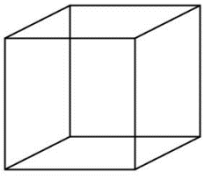

_____

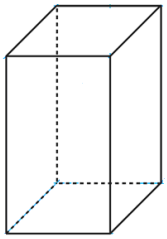

_____

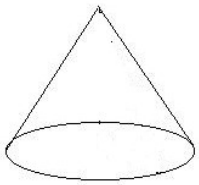

_____

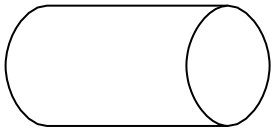

_____

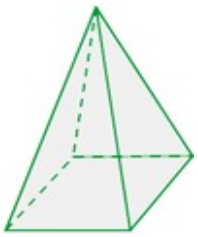

IV.- Dibuja en tu cuaderno y completa las partes del paralelepípedo de acuerdo a las instrucciones:

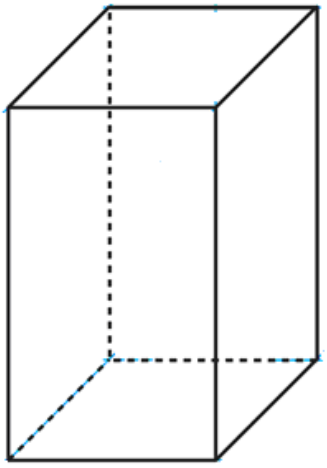

- Pinta rojo las caras.
- Pinta azul las aristas.
- Pinta verde los vértices.